３年　ジャンプ

１４　分数



学年		組		氏名	

1　あつこさんは，自分のたんじょう会に来てくれる友だちのために，ケーキを作りました。はじめの予定ではさんか者は７人だったので，あつこさん自身の分とあわせて，作ったケーキを８等分したのですが，２人さんかできなくなりました。そこであまったケーキは，さんか者のたかゆきさんに食べてもらうことにしました。たかゆきさんは，あつこさんが作ったケーキ全体のどれだけを食べることになりますか。

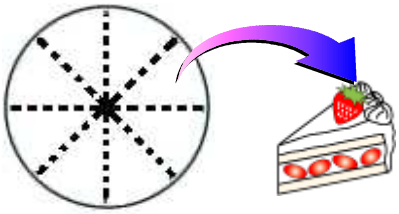

＜答え＞（　　）

2　下の図はゆたかさんの部屋を天じょうから見たもので，たたみが８枚（まい）しきつめてあります。その８枚の内，色のついた部分はタンスなどの家具がおいてあり，それ以外のたたみの部分には何もおいてありません。この何もおいていない部分のうち，２枚分は寝（ね）る部分として何もおき（へや）たくありません。それでは，ゆたかさんが自由に使える部分は，ゆたかさんの部屋全体の何分のいくつですか。

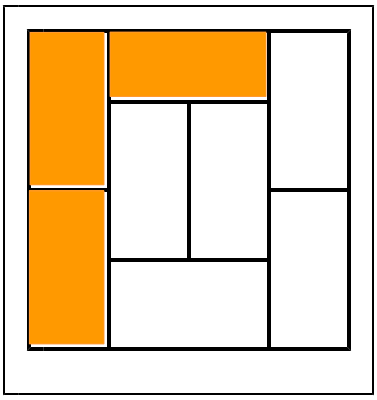

＜答え＞（　　）