３年　ホップ



３　わり算

学年		組		氏名	

1　１２本のえんぴつを，３人で同じ数ずつ分けると，１人分は何本になりますか。

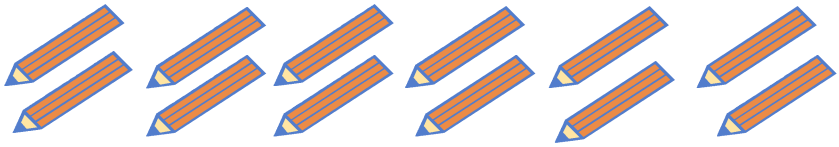

４　本

2　８さつのノートを，１人に２さつずつ分けると，何人に分けられますか。



４　人

3　次の問題（もんだい）の，式（しき）と答えを書きましょう。

（１）２４まいの色紙を，４人で同じ数ずつ分けると，１人分は何まいになりますか。

〈 式 〉　２４÷４＝６　（　６まい　）

（２）２４まいの色紙を，１人に４まいずつ分けると，何人に分けられますか。

〈 式 〉　２４÷４＝６　（　６人　）

4　次のわり算をしましょう。

（１）　２７　÷　３　＝９　　（２）　１８　÷　２　＝９

（３）　２０　÷　５　＝４　　（４）　２１　÷　３　＝７

（５）　２８　÷　４　＝７　　（６）　１２　÷　２　＝６

（７）　２４　÷　４　＝６　　（８）　７　÷　１　＝７

（９）　５４　÷　６　＝９　　（10）　８　÷　８　＝１